ВСЕРОССИЙСКАЯ ОЛИМПИАДА ШКОЛЬНИКОВ ПО ИСТОРИИ
2021/2022 УЧЕБНЫЙ ГОД
МУНИЦИПАЛЬНЫЙ ЭТАП
ЗАДАНИЯ
8 КЛАСС

Максимальное количество баллов за этап – 100 баллов.

1. [3 балла]

В заданиях дайте один верный ответ, внесите его в таблицу в бланке ответов.

1.1. Ниже приведён список названий государств. Укажите государство, которое существовало в Европе к началу XVII века.

1) Австро-Венгрия

2) Северо-американские Соединённые Штаты

3) Республика Соединённых провинций

4) Сербское княжество

1.2. Какое понятие из перечисленных связано с Великой Французской революцией?

1) «Интернационал» 3) Славная революция

2) «Марсельеза» 4) табориты

1.3. Укажите год смены российских монархов на престоле в XVII веке?

1) 1633 г. 3) 1682 г.

2) 1652 г. 4) 1690 г.

2. [9 баллов]

В заданиях выберите несколько верных ответов из предложенных. Ответы внесите в таблицу.

2.1. Какие из перечисленных явлений возникли в Российском государстве в XV веке?

1) уплата пожилого 4) подворное налогообложение

2) кормления 5) полки иноземного строя

3) местничество 6) старообрядчество

2.2. Ниже приведён список современников Ивана IV Грозного. Выберите из них тех, кто входил в Избранную раду.

Не забудьте перенести Ваши ответы в бланк работы!

1) А.Ф. Адашев. 4) Г.П. Скуратов-Бельский.

2) Митрополит Филипп. 5) Митрополит Макарий.

3) Священник Сильвестр. 6) А.Д. Басманов

2.3. Какие из приведённых событий произошли в 1492 году?

1) открытие Америки Христофором Колумбом

2) женитьба Ивана III на Софье Палеолог

3) прекращение существования Гранадского эмирата на территории Пиренейского полуострова

4) битва на реке Шелони

5) переход с мартовского года на сентябрьский в Московском государстве

6) захват Константинополя турками-османами.

3. [9 баллов]

Кто или что лишнее в ряду? Свой ответ поясните.

3.1. Пётр I, Михаил Фёдорович, Фёдор Алексеевич, Иван V.

3.2. Ивангород, Берёзов, Ям, Копорье.

3.3. И.М. Заруцкий, П.П. Ляпунов, Д.Т. Трубецкой, Д.М. Пожарский.

4. [3 балла]

Заполните пропуски в тексте

Из «Хронографа»

Хотя и из разных мест были люди, но в один голос говорили, и хотя сговориться не могли, ибо жили вдали друг от друга, но собрались все как равные в едином совете. Решили разумом, избрали же словом и постановили делом и благое решение приняли. Свершилось оно, людьми составленное, но по божественному устроению: умолили и упросили стать их государем на престоле царском Московского государства **(4.1.)** _____, который был по роду племянник царя и великого князя всея Руси **(4.2.)** _____ по матери его, царице и великой княгине Анастасии Романовне, бывшей супругой царю **(4.3.)** _____.

Не забудьте перенести Ваши ответы в бланк работы!

5. [6 баллов]

Расположите приведённые названия городов в хронологической последовательности их присоединения к Московскому княжеству/государству

1) Коломна 4) Нижний Новгород

2) Псков 5) Рязань

3) Тверь 6) Ярославль

6. [12 баллов]

Перед вами перечень городов, основанных (или впервые летописно упомянуты) в трёх разных веках. Определите и укажите века в верхней строке таблицы, в нижней строке отметьте города, которые были основаны в этом столетии.

1) Тамбов 2) Воронеж 3) Москва

4) Красноярск 5) Самара 6) Дмитров

7) Кострома 8) Иркутск 9) Архангельск

7. [3 балла]

Определите пропущенные в таблице события, даты и исторические документы, обозначенные заглавными буквами. Обратите внимание: среди предлагаемых вставок есть «лишние» элементы.

Фрагмент законодательного акта	**Название законодательного акта**	**Год**	**Событие всеобщей истории, происшедшее в тот же год**
(А)	Указ о единонаследии	**(Б)**	Окончание войны за испанское наследство
«Будет кто каким умышлением учнет мыслити на Государское здоровье злое дело, и про то его злое умышление кто известитъ, и по тому извету про то его злое умышление сыщется до пряма, что он на Царское Величество злое	**(В)**	1649 г.	**(Г)**

Не забудьте перенести Ваши ответы в бланк работы!

дело мыслил, и делать хотел: и такова по сыску казнити смертию»			
«…Бояре, Окольничие и Думные люди, тако ж Стольники, и Стряпчие, Дворяне и дети Боярские […] познавше, что те дела местничества отеческого ничто ино, токмо гордость и любви и отсечение и Нашим Государским всяким делам повреждение приносят, вси радостными сердцы Нам Великому Государю донесли, чтобы Мы, Великий Государь, Царь и Великий Князь Феодор Алексеевич указали, то виновное всякия злобы дело и братоненавидение, разоряющее любовь, то есть местничество отечественное оставить и вечно и искоренить…».	Соборное деяние об уничтожении местничества	**(Д)**	**(Е)**

Выберите варианты:

Варианты для пропуска А	**Варианты для пропуска В**	**Варианты для пропусков Б, Д**	**Варианты для пропусков Г, Е**
1. «А Христианом отказыватися из волости, ис села в село, один срок в году, за неделю до Юрьева дни осеннего и неделю после Юрьева дни осеннего. Дворы пожилые платят в полех за двор рубль, а в лесех полтина. А которой христианин поживет за ким год, да пойдет прочь, и он платит четверть двора, а два года поживет да поидеть прочь, и он полдвора платит; а три годы поживет, а пойдет прочь, и он платит три четверти двора; а четыре года поживет, и он весь двор платит»	Соборное уложение	1667 г.	Основание французскими исследователями колонии в устье реки Миссисипи
2. «Кто имеет сыновей и ему же, аще хощет, единому из оных дать недвижимое, чрез духовную, тому в наследие и будет. Другие же дети обоего полу да награждены будут движимыми имении, которые должен	Уложение о крестьянах	1714 г.	Казнь английского короля Карла I Стюарта

Не забудьте перенести Ваши ответы в бланк работы!

отец их или мать разделити им при себе, как сыновьям, так и дочерям, колико их будет, по своей воли, кроме оного одного, который в недвижимых наследником будет»			
3. Оубьеть моужь моужа, то мьстить братоу брата, или сынови отца, любо отцю сына, или братоучадоу, любо сестриноу сынови; аще не боудеть кто мьстя, то 40 гривенъ за голову; аще боудеть роусинъ, любо гридинъ, любо коупчина, любо ябетникъ, любо мечникъ, аще изъгои боудеть, любо словенинъ, то 40 гривенъ положити за нь.	Духовный регламент	1581 г.	Крестьянская война в Германии
4. А князь и посадник на вечи суду не судить; судити им у князя на сенех, взираа в правду, по крестному целованию. А не въсудят в правду, ино Бог буди им судиа на втором пришествии Христове. А тайных посулов не имать ни князю, ни посаднику.	Указ о заповедных летах	1682 г.	Публикация «95 тезисов» доктора богословия Мартина Лютера

8. [7 баллов]

Заполните пропуски в предложениях.

Внимание! Список ответов избыточен.

8.1. Военная кампания, обозначенная на схеме стрелками, получила название «_____ походы».

8.2. Цифрой __ на схеме обозначен город, считающийся родиной русского флота.

8.3. Цифрой __ на схеме обозначена река, имевшая также названия «Итиль» и «Ра».

8.4. Цифрой __ на схеме обозначен город, захваченный и удерживаемый казаками в течение 5 лет.

8.5. Цифрой __ на схеме обозначен город, крепость в котором была выполнена по проекту Ф. Коня.

8.6. Цифрой __ на схеме обозначен город, присоединённый к Московскому государству в 1521 году.

Не забудьте перенести Ваши ответы в бланк работы!

8.7. Цифрой __ на схеме обозначен город, вошедший в состав России по условиям Вечного мира.

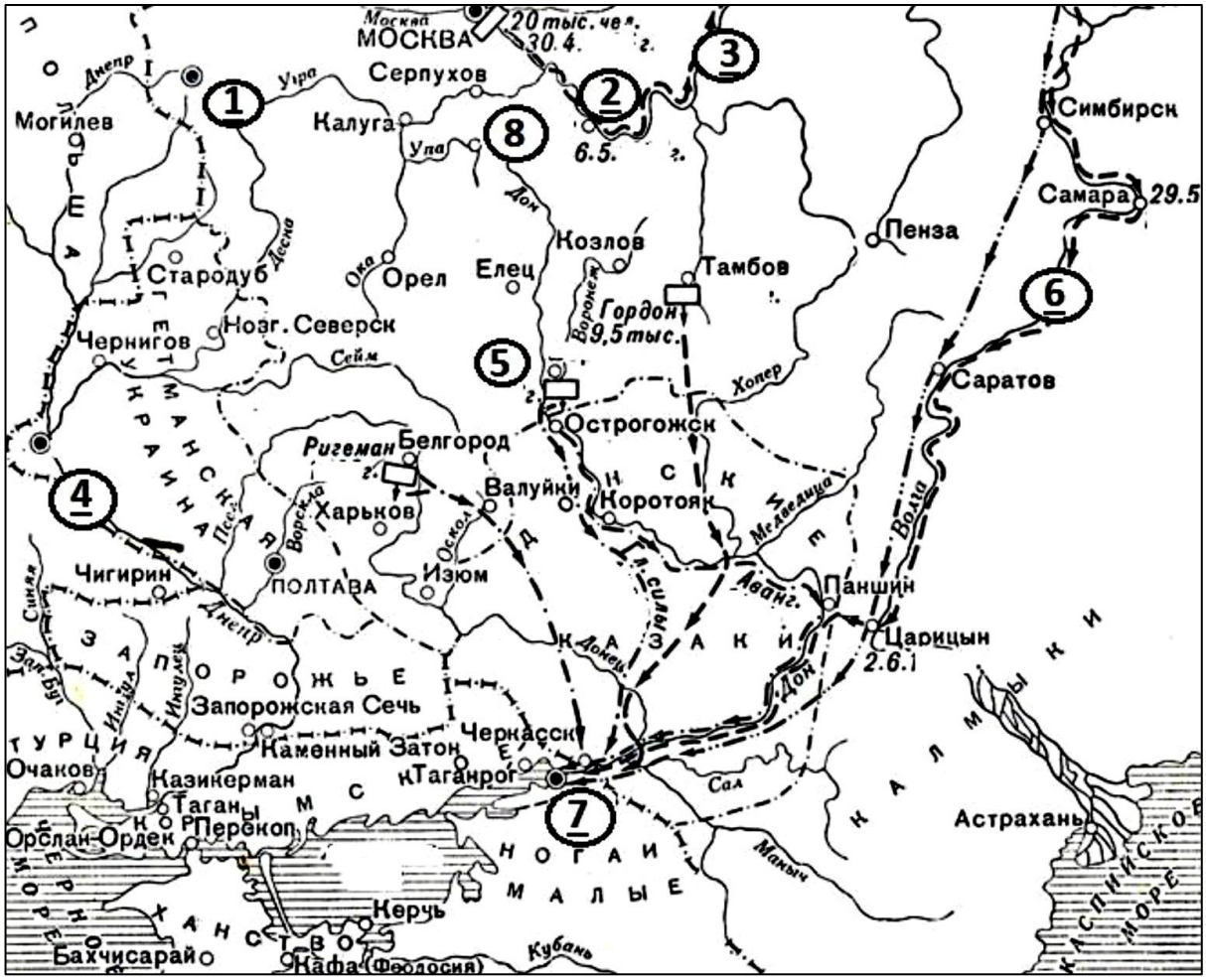

9. [5 баллов]

Прочитайте текст и ответьте на вопросы.

«И прочих наших на Москве жарили да пекли… Иных поборников церковных многое множество погублено, их же число Бог изочтёт. Чудо, как то в познание не хотят прийти: огнем, да кнутом, да виселицею хотят веру утвердить! Которые-то апостолы научили так? – не знаю.

Мой Христос не приказал нашим апостолам так учить. Огнем, да кнутом, да виселицею хотят в веру приводить… Волею зовет Христос, а не приказал апостолам непокоряющихся огнем жечь и на виселицах вешать…

Ну-тка, правоверные, станьте среди Москвы, перекреститесь знамением Спасителя нашего Христа! Бог благословит: мучься за сложение перст, не рассуждай много! А я с тобой за это умереть готов!»

Не забудьте перенести Ваши ответы в бланк работы!

9.1. Какое историческое событие стало причиной описанных в тексте действий?

9.2. Укажите имя автора текста.

9.3. Укажите название православной обители, не принявшей новое учение и сопротивлявшейся ему в течение 8 лет.

9.4. Укажите имена монарха и главы церкви, в годы руководства которых происходили указанные события.

10. [18 баллов]

Сопоставьте описания и изображения построек, назовите эти постройки и укажите время их возведения (с точностью до половины столетия). Обратите внимание, что одно из изображений – лишнее.

а) В лето **<…>** освященна бысть церкви София в Новегороде, месяца сентября 14, на Воздвижение честнаго креста, повелением князя великаго Ярослава Владимеровича Киевскаго и всея Руссии, и сына его, князя Владимера Ярославича, и архиепископа Новогородскаго Лукы.

б) Многие церкви создал Всеволод во время власти своей. Создал церковь прекрасную мученика Дмитрия на дворе своем и украсил ее дивно иконами и письмом. <…> И не искал Всеволод мастеров у немцев, но нашел мастеров <…> своих.

в) Заложил князь Андрей во Владимире церковь каменную святой Богородицы, 8 апреля, в день святого апостола Родиона, во вторник; и придал ей много имущества, и купленные слободы с данями, и лучшие села, и десятины в своих стадах, и торг десятый; и город заложил больший.

г) Сего же лета сын его первый Изяслав Андреевич ко Господу отъиде <…>. Сей же великий князь Андрей, аще печалию о скончавшемся сыне, яко человек объят быв, и скорбяше <…> более в богоугодные дела поощряшеся; ибо Боголюбския обители, яко поприще едино, на реке Клязьме, в лугу, нача здати церковь во имя Пресвятыя Богородицы честнаго ея Покрова, на устье реки Нерли <…> оную церковь единым летом соверши и обитель монашествующим при ней содела.

д) Затем <…> Владимир задумал воздвигнуть церковь святой Богородицы и послал привести мастеров из Греческой земли. И начал ее строить, и, когда кончил строить,

Не забудьте перенести Ваши ответы в бланк работы!

украсил ее иконами, и <…> поставил служить в ней корсунских священников, передав ей все, что взял перед этим в Корсуне: иконы, сосуды и кресты.

е) Он создал дом Божий, великий и святой, [церковь Софии], Премудрости его, <…> украсив ее всякою красотою: и золотом, и серебром, и драгоценными каменьями, и дорогими сосудами. И церковь эта вызывает удивление и восхищение во всех окрестных народах, ибо вряд ли найдется иная такая во всей полунощной стране с востока до запада.

1)

4)



2)

5)

3)



6)

Не забудьте перенести Ваши ответы в бланк работы!

7)

11. [8 баллов]

Перед вами плакаты, посвящённые событиям Великой Отечественной войны. Расположите плакаты в порядке их появления, от раннего (1) к позднему (8).

А)		Б)	

Не забудьте перенести Ваши ответы в бланк работы!

В)		Г)	
Д)		Е)	
Ж)		З)	

Не забудьте перенести Ваши ответы в бланк работы!

12. [17 баллов]

Решите исторический кроссворд на знание терминов, имен и событий истории Амурской области.

Вопросы:

По горизонтали:

1. В 1858 году ему был пожалован титул графа Амурского.
2. Землепроходец, в 1643 году он возглавил экспедицию на Амур.
3. С 1911 по 1917 года он являлся генерал-губернатором Приамурья.
4. Название корабля, которым командовал Г.И. Невельской во время Амурской экспедиции.
5. Первый Приамурский генерал-губернатор.
6. Первое поселение русских людей на реке Амур, основанное в 1650 году.
7. Это воеводство было создано в 1656 году для управления новыми восточными территориями, его первым воеводой стал Афанасий Пашков.
8. Маньчжурский город в котором был подписан договор о разграничении территорий.
9. Потомки мохэ, известные в Приамурье с IX века.
10. Громатухинская культура в Приамурье характеризует этот период человеческой истории.
11. Этот договор устанавливал границу между Россией и империей Цин.

По вертикали:

12. Народ, который русские землепроходцы называли «оседлыми тунгусами».
13. Сотник, который вместе со своим отрядом основал Усть-Зейский пост.
14. Крестьянин, родом из г. Великий Устюг, в 1649-1669 гг. совершил несколько походов в Приамурье.
15. Ископаемый подвид людей, проживавший на территории нашей области 400-300 тыс. лет назад.
16. Историческое имя эвенка.
17. Историко-географическая область на юге Дальнего Востока России, включающая в себя часть Хабаровского края, Еврейскую и Амурскую области.

Не забудьте перенести Ваши ответы в бланк работы!